מבחן אמצע כיתה ד׳

פתרו את התרגילים הבאים

867 + 75 = _____

1,781 - 888 = _____

32 x 6 = _____

64 : 7 = _____

יונתן אוהב גולות, הוא קנה ב87 שקלים גולות קטנות וב50 שקלים גולות גדולות. כמה כסף שילם יונתן בעבור הגולות?

תרגיל:_____

תשובה:_____

© כל הזכויות שמורות לאתר גולות karnafim.co.il | אין להפיץ, להעתיק, למכור או לעשות שימוש בתוכן ללא אישור
במידה ומצאתם טעויות מכל סוג שהן, נשמח שתשלחו לנו דיווח על מנת שנוכל לתקן. ט.ל.ח.

כתבו במילים:

7,463 _____

כתבו בספרות:_____

ששת אלפים מאה ותשע _____

רננה מתאמנת לתחרות הריצה, רננה רצה בסך הכל 600 מטרים. באימון הראשון רצה רננה 350 מטרים ואת יתר המרחק רצ במהלך האימון השני.

כמה מטרים רצה רננה במהלך האימון השני?

תרגיל:_____

תשובה:_____

לימור התבקשה לפתור את התרגיל 47x5. לימור הציעה לפתור את התרגיל כך "7 פעמים 5 ועוד 5 פעמים 40"

כתבו את התרגיל שלימור הציעה _____

האם לימור צדקה? כתבו את הסיבה אם כן ואם לא

_____

_____

© כל הזכויות שמורות לאתר גולות karnafim.co.il | אין להפיץ, להעתיק, למכור או לעשות שימוש בתוכן ללא אישור
במידה ומצאתם טעויות מכל סוג שהן, נשמח שתשלחו לנו דיווח על מנת שנוכל לתקן. ט.ל.ח.

פתרו:

10 x 35 = _____

120 : 10 = _____

השלימו מספרים מתאימים:

_____ < 1,250 < _____

_____ < _____ < 4,560

8,570 < _____ < 8,600

מקמו בקירוב את המספרים הבאים על ציר המספרים:

720 , 670 , 80 , 410 , 550

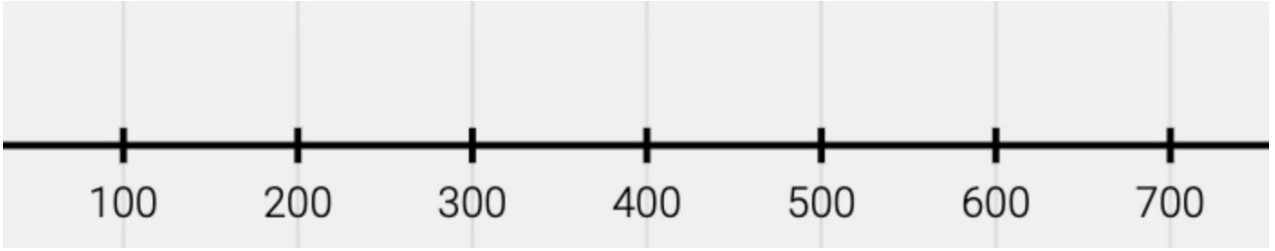

© כל הזכויות שמורות לאתר גולות karnafim.co.il | אין להפיץ, להעתיק, למכור או לעשות שימוש בתוכן ללא אישור
במידה ומצאתם טעויות מכל סוג שהן, נשמח שתשלחו לנו דיווח על מנת שנוכל לתקן. ט.ל.ח.

השלימו את המספרים החסרים:

40 = 6:_____

350 + _____ = 640 - 210

880 - _____ = 340

פתרו:

13 x 4 + 8 : 4 = _____

34 + 7 x 7 = _____

12 : 4 + 3 x 4 = _____

חבורת בומס מונה 9 ילדים, כל ילד הביא למפגש האחרון 3 בלונים לבנים ו9 בלונים כחולים. כמה בלונים הביאו חברי חבורת בומס למפגש?

תרגיל:_____

תשובה:_____

© כל הזכויות שמורות לאתר גולות karnafim.co.il | אין להפיץ, להעתיק, למכור או לעשות שימוש בתוכן ללא אישור
במידה ומצאתם טעויות מכל סוג שהן, נשמח שתשלחו לנו דיווח על מנת שנוכל לתקן. ט.ל.ח.

שונית רכשה מלאי ציוד לשנת הלימודים הקרובה. מחברות שורה במחיר כולל של 77 שקלים וקלמר קטן בצבע סגול במחיר 13 שקלים. שונית שילמה בשטר של 100 שקלים. כמה עודף תקבל שונית לאחר התשלום?

תרגיל:_____

תשובה:_____

אביתר רכש חטיפים לטיול השנתי. חטיף מלוח ב11 שקלים, מסטיק ב7 שקלים, סוכריות לכיתה ב13 שקלים ובקבוק מים ב 6 שקלים.

האם לאביתר יספיקו 30 שקלים לרכישה?

פרטו _____

_____

_____

השלימו את החסר:

6x41 = 6x___ + 6x___ = ___

9x67 = 9x___ + 9x___

בונוס 9x89 = 9x___ + 9x___ + 9x___

© כל הזכויות שמורות לאתר גולות karnafim.co.il | אין להפיץ, להעתיק, למכור או לעשות שימוש בתוכן ללא אישור
במידה ומצאתם טעויות מכל סוג שהן, נשמח שתשלחו לנו דיווח על מנת שנוכל לתקן. ט.ל.ח.

כהכנה למסיבת התחפושות מחלקים 24 רעשנים לקופסאות שונות

מספר הקופסאות:_____ מספר הרעשנים בכל קופסא:_____

מספר הקופסאות:_____ מספר הרעשנים בכל קופסא:_____

מספר הקופסאות:_____ מספר הרעשנים בכל קופסא:_____

מספר הקופסאות:_____ מספר הרעשנים בכל קופסא:_____

נתונים המספרים הבאים מהם נרכיב סדרה בסדר עולה:

9,18,12,15,6

כתבו את הסדרה _____ , _____ , _____ , _____ , _____ , _____ , _____ , _____

הוסיפו לסדרה 4 מספרים נוספים

מה חוקיות ההפרש בסדרה? _____

אילו מהמספרים הבאים שייכים לסדרה? 30 , 32, 28 , 25 , 27

© כל הזכויות שמורות לאתר גולות karnafim.co.il | אין להפיץ, להעתיק, למכור או לעשות שימוש בתוכן ללא אישור
במידה ומצאתם טעויות מכל סוג שהן, נשמח שתשלחו לנו דיווח על מנת שנוכל לתקן. ט.ל.ח.

מה אורכו של החץ הבא:

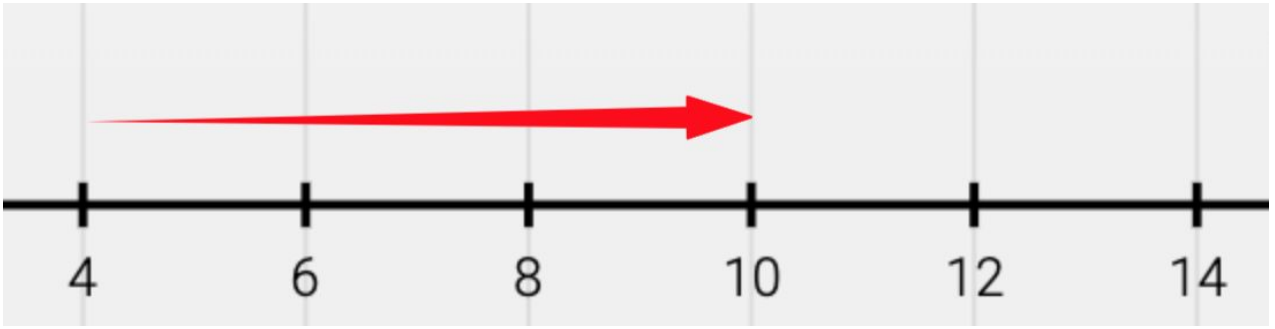

מה אורכו של החץ הבא:

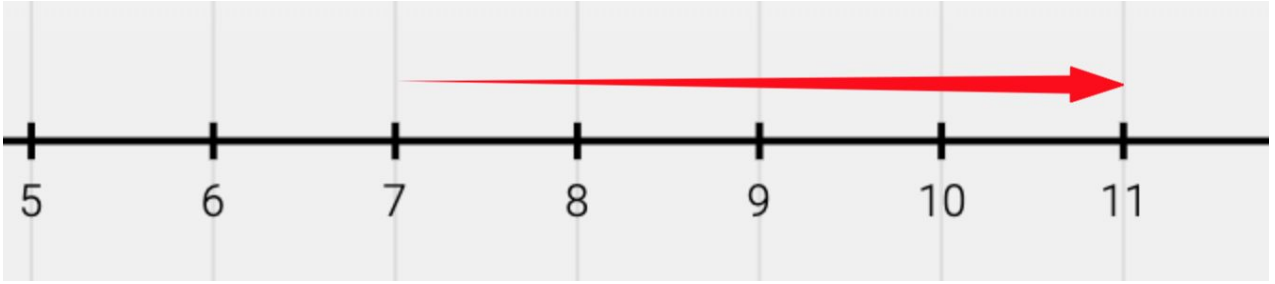

כתבו סימן מתאים <,> או =

3ק״ג _____ 30,000 גרם

2ק״ג_____ 2,400 גרם

מה כבד יותר 350 גרם סוכר או 2ק״ג נוצות?_____

© כל הזכויות שמורות לאתר גולות karnafim.co.il | אין להפיץ, להעתיק, למכור או לעשות שימוש בתוכן ללא אישור
במידה ומצאתם טעויות מכל סוג שהן, נשמח שתשלחו לנו דיווח על מנת שנוכל לתקן. ט.ל.ח.

הקיפו בעיגול את הזוויות הכהות במצולע הבא:



צבעו שליש מהמלבנים הבאים:

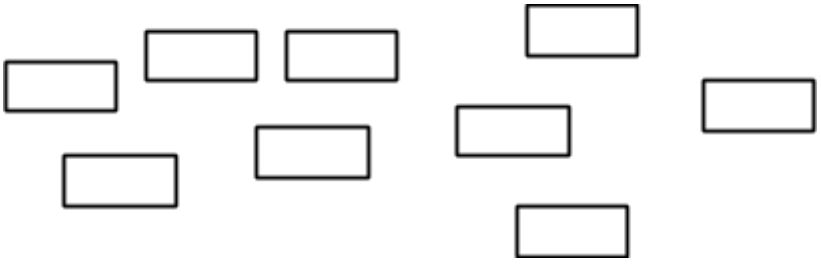

מהו השבר המתאר את החלק הצבוע שבציור הבא:

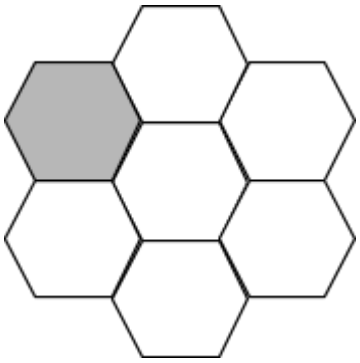

© כל הזכויות שמורות לאתר גולות karnafim.co.il | אין להפיץ, להעתיק, למכור או לעשות שימוש בתוכן ללא אישור
במידה ומצאתם טעויות מכל סוג שהן, נשמח שתשלחו לנו דיווח על מנת שנוכל לתקן. ט.ל.ח.

דותן יצא לבית הספר בשעה 7:25, דותן צעד במשך 45 דקות.

השיעור הראשון מתחיל בשעה 8:00, האם דותן הגיע בזמן לשיעור הראשון?

כן/לא?_____

באיזו שעה הגיע דותן לכיתה?_____

בימים גשומים דותן מגיע לבית הספר בהסעה הנוסעת 30 דקות. האם בהסעה יגיע

דותן בזמן לשיעור הראשון? _____

באיזו שעה יגיע כעת דותן לכיתה?_____

© כל הזכויות שמורות לאתר גולות karnafim.co.il | אין להפיץ, להעתיק, למכור או לעשות שימוש בתוכן ללא אישור
במידה ומצאתם טעויות מכל סוג שהן, נשמח שתשלחו לנו דיווח על מנת שנוכל לתקן. ט.ל.ח.